1　わたしたちの国土
国土の特色

年　組　番
名前

／12問

知 **1**　次の問いに答えなさい。

(1)　次の文中の(　)にあてはまる数字を，下の[　　]から選んで答えなさい。

日本のはんいは，南北はおよそ北緯20度から(　①　)度，東西はおよそ東経(　②　)度から153度までである。択捉島から与那国島までは(　③　)km以上ある。

122	3000	45

①(　　)　②(　　)
③(　　)

(2)　右の図中のAは太平洋をはさんで日本と向かい合っている国，Bは日本の真南に位置する国です。A・Bの国名を，それぞれ答えなさい。

A　(　　)
B　(　　)

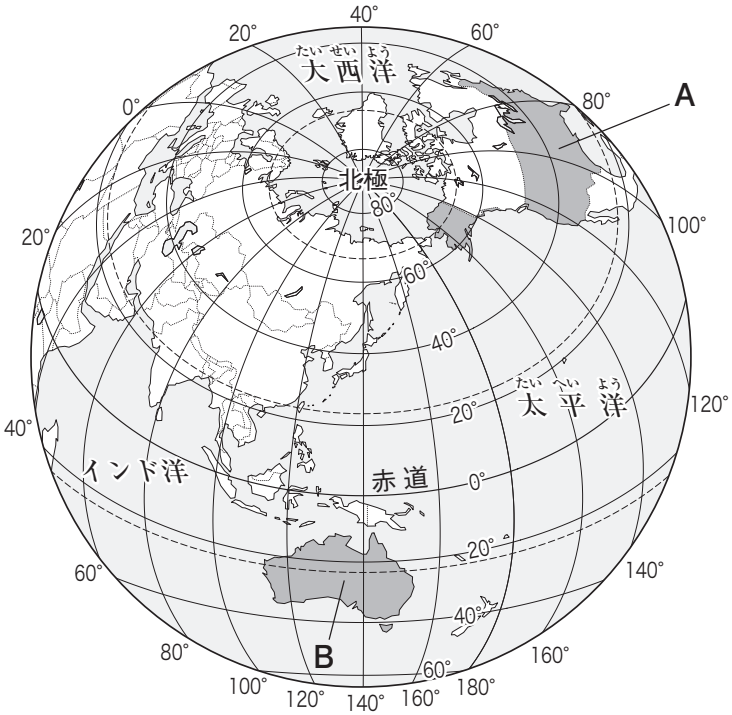

知 **2**　次の問いに答えなさい。

(1)　右の地図中の㋐の山脈名，㋑の川の名，㋒の平野名を，それぞれ答えなさい。

㋐　(　　)山脈
㋑　(　　)川
㋒　(　　)平野

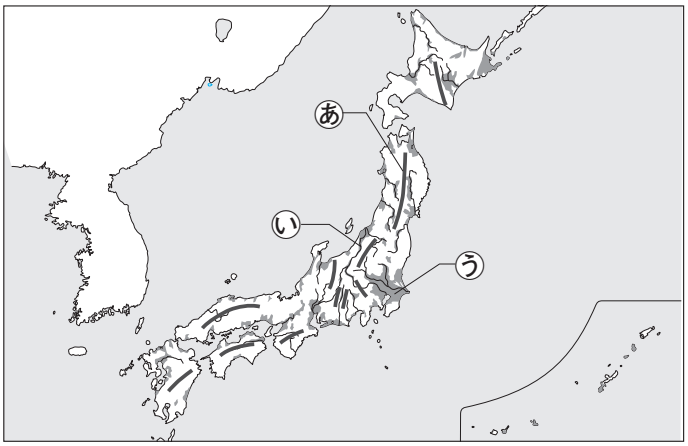

(2)　６月から７月にかけて，北海道以外の地域でふり続く長雨の時期を，何といいますか。
(　　)

(3)　夏から秋にかけて毎年日本をおそう，大雨と強風をもたらすものを何といいますか。
(　　)

(4)　夏と冬で向きの変わる風を，何といいますか。　(　　)

(5)　右の断面図は，日本の中央部の冬の様子をあらわしています。(4)の風はどちらからどちらへ向かってふきますか。矢印を図の中に書き入れなさい。

断面図

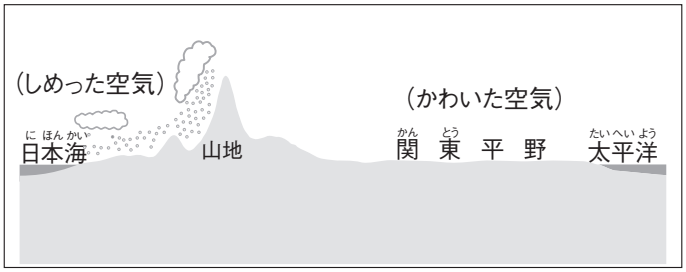

©TOKYO SHOSEKI